Nom et prénom	N° Candidat

Ce dossier comporte **6 pages**, numérotées de **DS 1 / 6** à **DS 6 / 6.**

Assurez-vous que cet exemplaire est complet.
S'il est incomplet, demandez un autre exemplaire au chef de salle.

Pour répondre à l'ensemble de ces études, vous disposez du dossier technique remis conjointement à ce dossier sujet-réponses.

L'usage de la calculatrice avec mode examen actif est autorisé.
L'usage de la calculatrice sans mémoire, « type collège » est autorisé.

CAP
Constructeur de réseaux de canalisations de travaux publics

Session 2026

ÉPREUVE EP3
Réalisation de travaux spécifiques

DOSSIER SUJET

Page de garde	DS 1 / 6
Sommaire	DS 2 / 6
Contexte professionnel de l’épreuve	DS 3 / 6
Descriptif de l’ouvrage	DS 4 / 6 à DS 5 / 6
Fiche d’évaluation candidat **Le barème de correction figure sur cette fiche d’évaluation.**	DS 6 / 6

<u>CONTEXTE PROFESSIONNEL DE L'ÉPREUVE</u> :

Dans le cadre des travaux de réfection des réseaux humides sur la commune de Freycenet-la-Tour, vous devez réaliser le raccordement du regard et la réfection définitive du plan ci-contre.

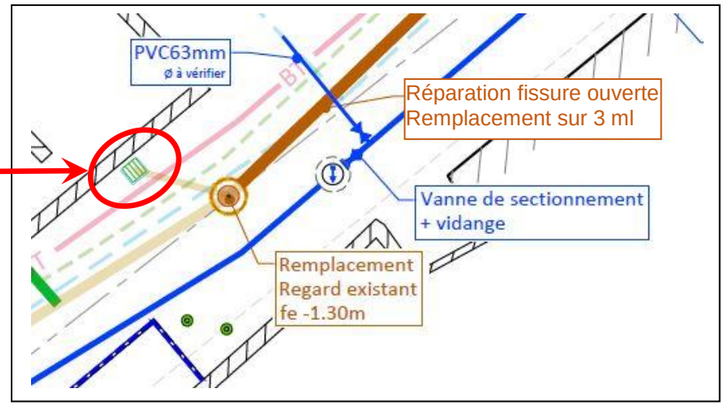

<u>État des lieux du chantier lors de votre arrivée</u> :

- Le matériel est à pied d'œuvre.
- Le réseau EP ∅160 est en attente
- Le fond de regard est en place ainsi qu'un caniveau CC1.
- Les matériaux sont approvisionnés.
- Vous disposez d'un dossier technique comprenant les plans et fiches fournisseurs.

<u>Travail demandé</u> :

- Réaliser le branchement du regard au réseau EP en respectant les règles de l'art et de sécurité.
- Réaliser le masque au mortier de ciment.
- Réaliser la réfection définitive du caniveau CC1.
- Mettre à la cote la grille concave.
- Sceller le cadre de la grille fonte.
- Réaliser les joints entre le cadre de la grille et le caniveau CC1.
- Nettoyer et ranger le chantier.

MODE OPÉRATOIRE CONSEILLÉ		
Journée	**Tâches à effectuer**	
Après-midi J3 (3h00)	Échanger et rendre compte oralement sur le travail réalisé et sur l'organisation de son intervention.	15 mn
	Exécuter le branchement du regard.	45 mn
	Réaliser la réfection définitive : pose CC1, mise à la cote et scellement grille fonte, joints, nettoyage et rangement.	2h00

DESCRIPTIF DE L'OUVRAGE

VUE EN PLAN
Sans échelle

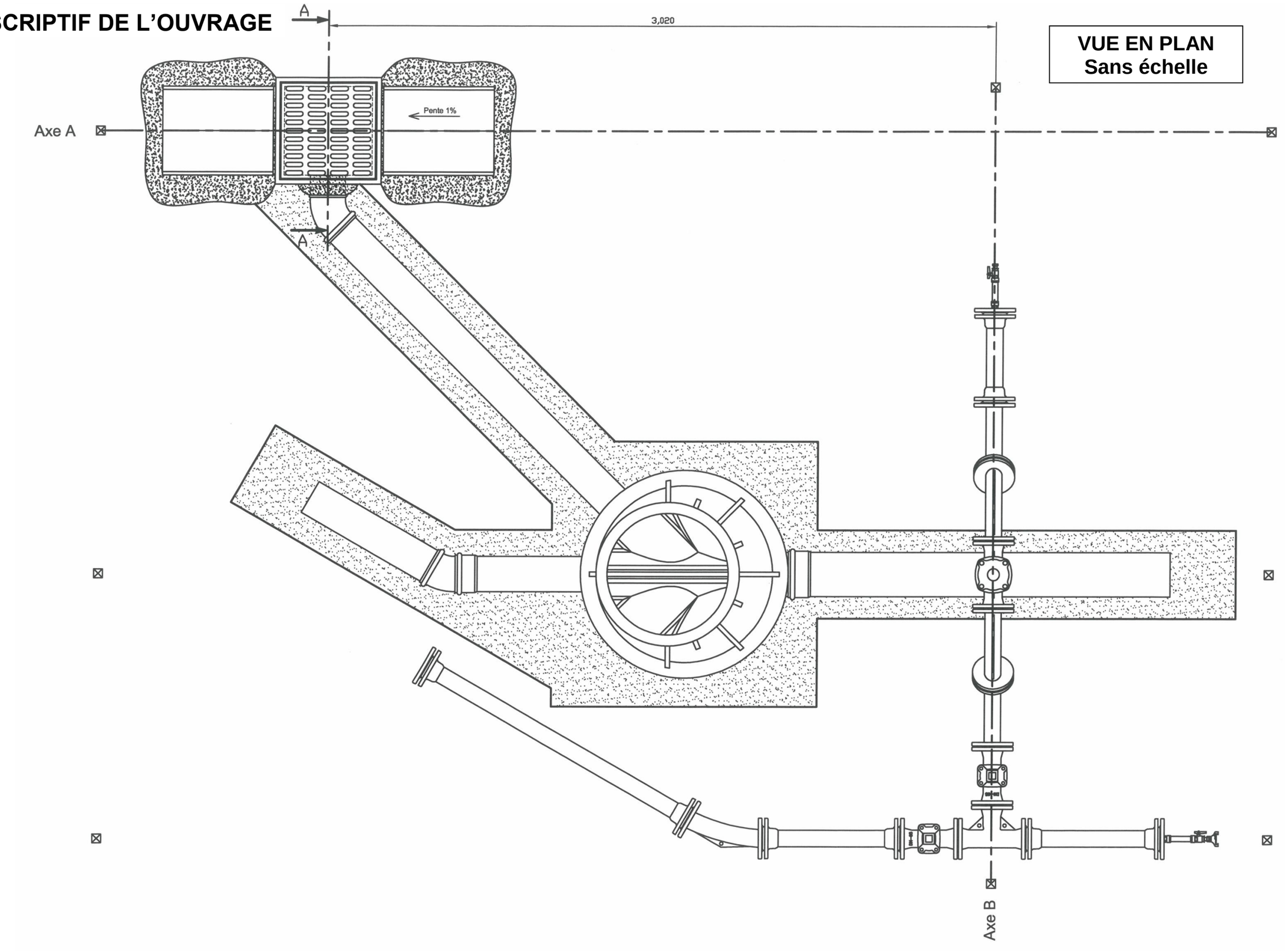

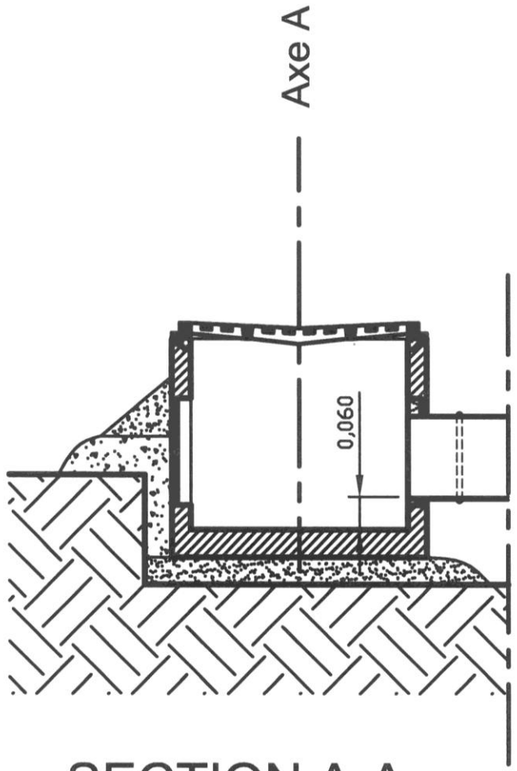

SECTION A-A

SECTION SUR AXE A

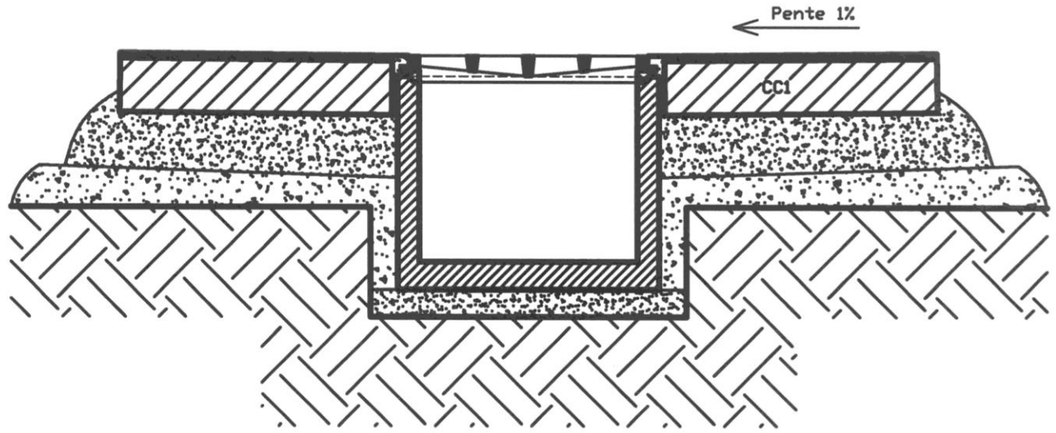

FICHE D'ÉVALUATION CANDIDAT

COMPÉTENCES	TRAVAIL DEMANDÉ	CRITÈRES D'ÉVALUATION	INDICATEURS D'ÉVALUATION	BARÈME	
C1.2 : Echanger et rendre compte oralement	Tenir un propos clair, précis et concis	L'information transmise correspond à la demande		/ 3	**/12**
		Le lexique employé est adapté		/ 3	
	Comprendre les questionnements	L'interlocuteur est écouté et compris		/ 3	
	Signaler les situations à risque	Toute situation à risque professionnel est signalée		/ 3	
C3.9 Réaliser un branchement	Exécuter un branchement	Préparer et réaliser la prise d'un branchement	Traçage Fe dans regard	/ 2	**/ 30**
			Propreté de la découpe	/ 2	
		Les modes opératoires de mise en œuvre sont strictement respectés	Coupe droite	/ 2	
			Chanfreinage réalisé	/ 2	
			Emboitement coude dans accès regard et dans tube PVC	/ 4	
			Scellement accès de regard	/ 5	
			Enduit de finition intérieur regard au mortier tamisé	/ 3	
		Les règles de sécurité sont respectées	-2 pts pour chaque intervention d'un correcteur	/ 10	
C3.10 Réaliser des ouvrages connexes au réseau	Sceller un élément de bordure dans l'environnement existant	Pose	0 ou 4	/ 4	**/ 13**
		Pente 1%	0 ou 4	/ 4	
		Calage	0 ou 3	/ 3	
		Joints	0 ou 2	/ 2	
C3.12 Réaliser une opération de maintenance sur un réseau	Entretenir et mettre à niveau les ouvrages de surface	La grille fonte concave est scellée et correspond au Fe du caniveau CC1	0 ou 5	/ 5	**/ 5**

TOTAL :		**/ 60**
NOTE PROPOSÉE :		**/ 20**

<u>Nota</u> : Les tâches grisées seront évaluées en cours de réalisation.

Pour chaque ligne, indiquer le nombre de points octroyés.
Arrondir la note au demi-point supérieur et reporter la sur le bordereau de notation.